第１講・世界の姿

地域区分，世界の国々

ポイント１　地域区分

＿＿にあてはまる語句を確認しましょう。

世界の地域区分

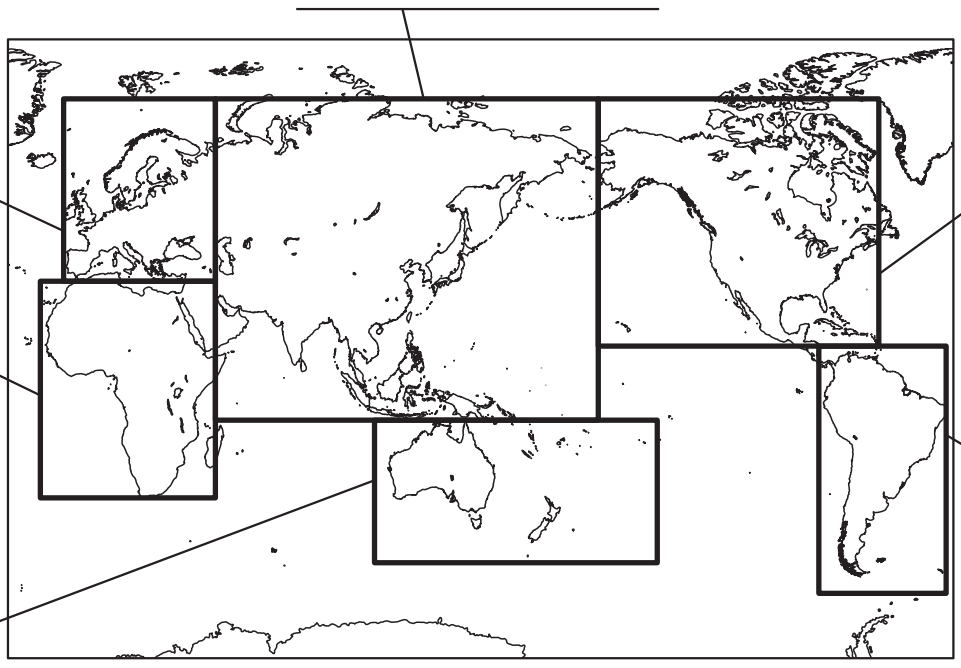

ポイント２　世界の国々

＿＿にあてはまる語句を確認しましょう。

① **面積と人口**　※2025年現在

面積が最大：ロシア連邦（日本の約45倍）

面積が最小：バチカン市国

人口が最多：インド（約14億人）

人口が最少：バチカン市国（約800人）

資料1　バチカン市国

人口密度（人口を面積で割った値）も国によって大きく差がある

② **国境とは**

国境：国と国の境界

↓

国境もさまざま

山，川，湖など自然の地形に沿って決めた国境

緯線，経線などから人が直線的に引いた国境

資料2　アフリカ州

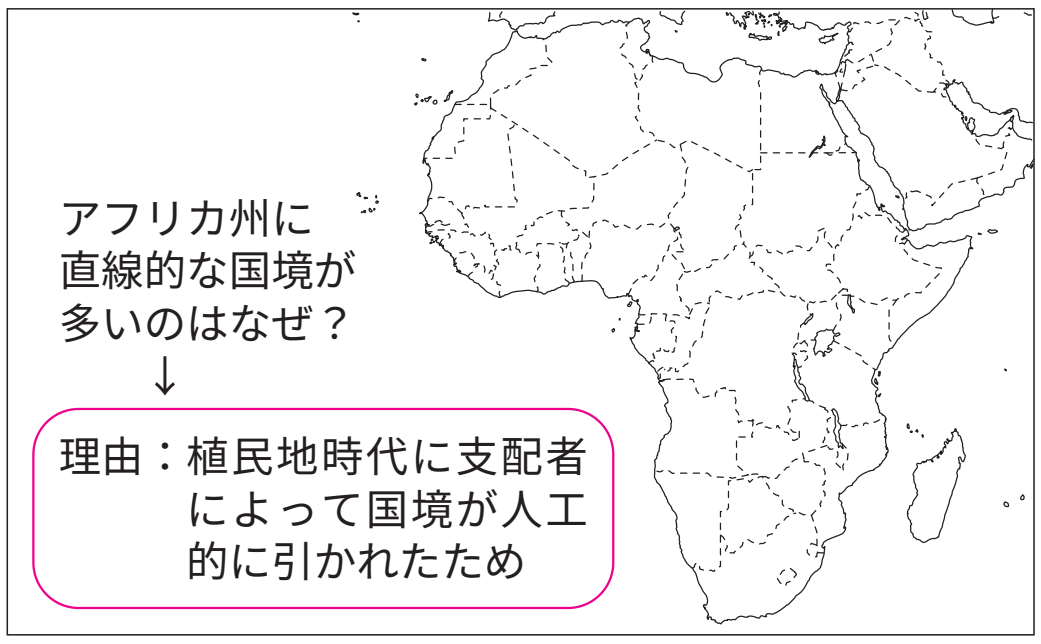

③ 島国（海洋国）と内陸国

島国　：周りを海に囲まれた国　※島国を海洋国と呼ぶこともある
日本，ニュージーランドなど

内陸国　：海に面していない国
モンゴル，スイスなど

④ 国旗

国旗は国の歴史や人々の願いを表すことが多い

資料3 オセアニア州の国旗

イギリス「ユニオンジャック」
オセアニア州の国旗にも入る



資料4 イスラム教国の国旗

イスラム教徒の多い国には
三日月と星が記される



確認テスト

次の問いに答えなさい。

(1) ユーラシア大陸は二つの州に分けられるが，それはアジア州とどこか。　＿＿＿＿＿＿　**ヨーロッパ州**

(2) 人口を面積で割った値を何というか。　＿＿＿＿＿＿　**人口密度**

(3) 周りを海で囲まれている国を何というか。　＿＿＿＿＿＿　**島国（海洋国）**

(4) 海に面していない国を何というか。　＿＿＿＿＿＿　**内陸国**